Doğru: Yanlış: Boş:

1. Üç iç açısı da 90°'den küçük olan üçgene ne denir?

A Dik açılı üçgen
B Geniş açılı üçgen
C Eşkenar üçgen
D Dar açılı üçgen

2. Bir iç açısı tam 90° olan üçgene ne denir?

A Dik açılı üçgen
B Dar açılı üçgen
C Geniş açılı üçgen
D Çeşitkenar üçgen

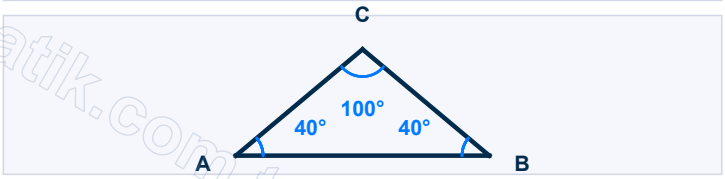

3. Şekildeki üçgen açılarına göre nedir?

A Dar açılı üçgen
B Dik açılı üçgen
C Eşkenar üçgen
D Geniş açılı üçgen

4. Bir üçgenin iki iç açısı 50° ve 60°'dir. Üçüncü açı kaç derecedir?

A 50°
B 60°
C 70°
D 80°

5. İki iç açısı 45° ve 45° olan üçgen için hangisi doğrudur?

A Geniş açılı ikizkenar üçgendir
B Dik açılı ikizkenar üçgendir
C Dar açılı eşkenar üçgendir
D Dik açılı çeşitkenar üçgendir

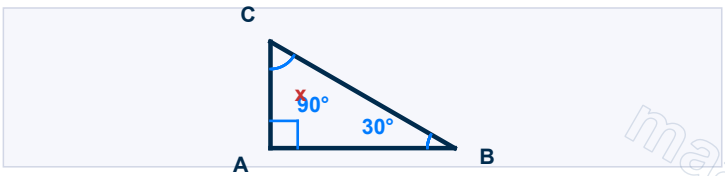

6. Şekildeki dik açılı üçgende x kaç derecedir?

A 30°
B 45°
C 60°
D 120°

7. Bir üçgenin iki açısı da 90° olabilir mi?

A Hayır, çünkü üçüncü açıya yer kalmaz.
B Evet, olabilir.
C Hayır, çünkü açılar 60° olmalıdır.
D Evet, üçüncü açı 180° olur.

8. Bir eşkenar üçgenin iç açılarından biri kaç derecedir?

A 30°
B 45°
C 90°
D 60°

9. İç açılarından ikisi 30° ve 30° olan üçgen için hangisi doğrudur?

A Dar açılı eşkenar üçgendir
B Geniş açılı ikizkenar üçgendir
C Dik açılı ikizkenar üçgendir
D Dar açılı çeşitkenar üçgendir

10. Aşağıdakilerden hangisi YANLIŞTIR?

A Dar açılı üçgenin her açısı 90°'den küçüktür.
B Bir üçgenin en fazla bir dik açısı olur.
C Geniş açılı üçgenin iki geniş açısı olabilir.
D Üçgenin iç açıları toplamı 180°'dir.

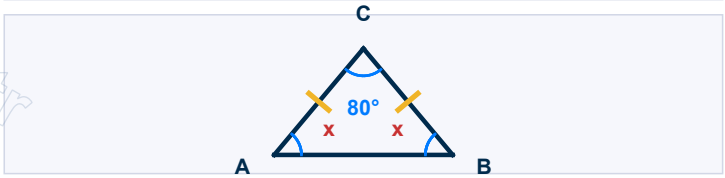

11. İkizkenar üçgenin tepe açısı 80°'dir. Taban açısı x kaç derecedir?

A 50°
B 40°
C 80°
D 100°

12. İç açılarından ikisi 25° ve 65° olan üçgen açılarına göre nasıl bir üçgendir?

A Dar açılı üçgen
B Dik açılı üçgen
C Geniş açılı üçgen
D Eşkenar üçgen

Doğru	Yanlış	Boş
_____ / 12	_____ / 12	_____ / 12

Soru	Cevabim	Dogru	Konu	Sonuc	Tekrar Et?
1		D	Dar Açılı Üçgen		
2		A	Dik Açılı Üçgen		
3		D	Geniş Açılı Üçgen		
4		C	Üçüncü Açıyı Bulma		
5		B	Dik Açılı İkizkenar		
6		C	Dik Üçgende Açı		
7		A	İki Dik Açı		
8		D	Eşkenar Üçgenin Açısı		
9		B	Geniş Açılı İkizkenar		
10		C	Yanlış İfade		
11		A	İkizkenar Üçgende Açı		
12		B	Karma Üçgen Adlandırma		

Çalışmam Gereken Konular:

_____

_____

Instagram
Kamerayla okut

YouTube
Kamerayla okut

Web sitesi
Kamerayla okut

Bir Sonraki Adımım:

- [ ] Yanlis yaptigim soruyu tekrar coz
- [ ] Cozum videosunu izle -> https://youtu.be/hlrbfTCvzoo
- [ ] Konu analizine bak -> maarifmatematik.com.tr/sinif/5/mat-5-cember
- [ ] Tum MAT5.17 setini al -> shopier.com/MaarifMatematik

Cozum Videosu

"Hata yapmak değil, hatadan ders çıkarmamak başarısızlıktır."