Doğru: Yanlış: Boş:

1. Üç kenarı da eşit olan üçgene ne denir?

A Eşkenar üçgen
B Çeşitkenar üçgen
C İkizkenar üçgen
D Dik üçgen

2. Kenarları 5 cm, 5 cm ve 8 cm olan üçgen kenarlarına göre nedir?

A Eşkenar üçgen
B İkizkenar üçgen
C Çeşitkenar üçgen
D Dar açılı üçgen

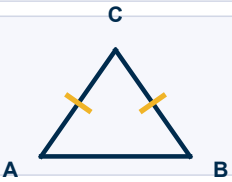

3. Eşit kenarlar aynı işaretle gösterilmiştir. Bu üçgen hangisidir?

A Eşkenar üçgen
B İkizkenar üçgen
C Çeşitkenar üçgen
D Geniş açılı üçgen

4. Yarıçapları eşit iki çember birbirinin merkezinden geçiyor. Oluşan üçgen nedir?

A Çeşitkenar üçgen
B Geniş açılı üçgen
C Yalnızca iki kenarı eşit üçgen
D Eşkenar üçgen

5. Yarıçapları 2 br ve 3 br, merkezleri arası 4 br olan çemberlerle oluşan üçgen nedir?

A Eşkenar üçgen
B İkizkenar üçgen
C Dik açılı üçgen
D Çeşitkenar üçgen

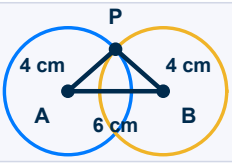

6. Çemberlerin yarıçapları 4 cm, merkezleri arası 6 cm'dir. ABP üçgeni nedir?

A Eşkenar üçgen
B Çeşitkenar üçgen
C Dik açılı üçgen
D İkizkenar üçgen

7. AB doğru parçası çizilip pergel AB kadar açılıyor. A ve B merkezli çemberler C'de kesişiyor. ABC için hangisi doğrudur?

A AB = AC = BC
B AB = AC, BC farklı
C AB, AC ve BC farklı
D AC = BC, AB farklı

8. Bir kenarı 6 cm olan eşkenar üçgenin çevresi kaç cm'dir?

A 12
B 18
C 24
D 36

9. Eşit kenarları 7 cm, üçüncü kenarı 4 cm olan ikizkenar üçgenin çevresi kaç cm?

A 11
B 14
C 18
D 21

10. Aşağıdakilerden hangisi YANLIŞTIR?

A Eşkenar üçgenin üç kenarı da eşittir.
B İkizkenar üçgenin iki kenarı eşittir.
C Çeşitkenar üçgenin iki kenarı eşittir.
D Çeşitkenar üçgenin hiçbir kenarı eşit değildir.

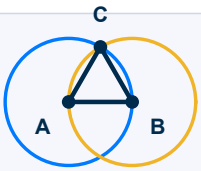

11. B, A merkezli çemberin üzerinde. B merkezli aynı yarıçaplı çember A'yı C'de keser. ABC üçgeni nedir?

A Eşkenar üçgen
B Çeşitkenar üçgen
C Yalnızca iki kenarı eşit üçgen
D Geniş açılı üçgen

12. Yarıçapları 4 cm, merkezleri arası 6 cm olan çemberlerin oluşturduğu üçgenin çevresi kaç cm?

A 10
B 12
C 14
D 18

Doğru	Yanlış	Boş
_____ / 12	_____ / 12	_____ / 12

Soru	Cevabim	Dogru	Konu	Sonuc	Tekrar Et?
1		A	Eşkenar Üçgen		
2		B	İkizkenar Üçgen		
3		B	Eşit Kenar İşareti		
4		D	Çemberlerle Eşkenar Üçgen		
5		D	Çemberlerle Çeşitkenar Üçgen		
6		D	Çemberlerle İkizkenar Üçgen		
7		A	Pergelle Eşkenar İnşası		
8		B	Eşkenar Üçgenin Çevresi		
9		C	İkizkenar Üçgenin Çevresi		
10		C	Yanlış İfade		
11		A	Merkezden Geçen Çember		
12		C	Gerçek Yaşam (Çevre)		

Çalışmam Gereken Konular:

_____

_____

Instagram
Kamerayla okut

YouTube
Kamerayla okut

Web sitesi
Kamerayla okut

Bir Sonraki Adımım:

- [ ] Yanlis yaptigim soruyu tekrar coz
- [ ] Cozum videosunu izle -> https://youtu.be/3lpW91uTZv0
- [ ] Konu analizine bak -> maarifmatematik.com.tr/sinif/5/mat-5-cember
- [ ] Tum MAT5.16 setini al -> shopier.com/MaarifMatematik

Cozum Videosu

"Hata yapmak değil, hatadan ders çıkarmamak başarısızlıktır."