Doğru: Yanlış: Boş:

1. Ardışık kesişen doğruların oluşturduğu kapalı şekle ne denir?

A Çokgen
B Açı
C Işın
D Doğru parçası

2. Bir çokgen oluşturmak için en az kaç doğru gerekir?

A 2
B 3
C 4
D 5

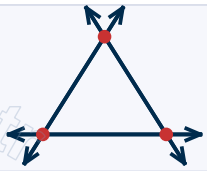

3. Şekildeki doğrular ardışık kesişerek hangi çokgeni oluşturmuştur?

A Üçgen
B Dörtgen
C Beşgen
D Altıgen

4. Bir çokgenin köşelerini birleştiren doğru parçalarına ne denir?

A Köşe
B Kenar
C Açı
D Merkez

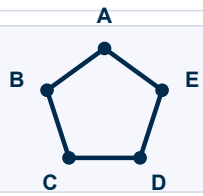

5. Şekildeki çokgenin kaç köşesi vardır?

A 4
B 6
C 5
D 10

6. Kenar sayısı 6 olan bir çokgenin kaç açısı vardır?

A 3
B 5
C 6
D 12

7. Aşağıdakilerden hangisi çokgenin elemanı DEĞİLDİR?

A Köşe
B Kenar
C Açı
D Yarıçap



8. Şekil neden çokgen değildir?

A Kapalı olmadığı için
B Köşesi olduğu için
C Kenarı olduğu için
D Açısı olduğu için

9. Bir çokgenin 8 köşesi varsa kaç kenarı vardır?

A 6
B 7
C 8
D 16

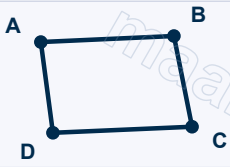

10. Şekildeki çokgenin kenarı OLMAYAN hangisidir?

A [AB]
B [BC]
C [CD]
D [AC]

11. Kenar ve köşe sayıları toplamı 14 olan çokgenin kaç açısı vardır?

A 5
B 6
C 7
D 14

12. Ardışık kesişen 6 doğrunun oluşturduğu kapalı şekil hangisidir?

A Beşgen
B Altıgen
C Yedigen
D Sekizgen

Doğru	Yanlış	Boş
_____ / 12	_____ / 12	_____ / 12

Soru	Cevabim	Dogru	Konu	Sonuc	Tekrar Et?
1		A	Çokgen Tanımı		
2		B	Doğru Sayısı		
3		A	Doğrulardan Çokgen		
4		B	Kenar		
5		C	Köşe Sayısı		
6		C	Açı Sayısı		
7		D	Çokgen Elemanları		
8		A	Kapalı Şekil		
9		C	Kenar-Köşe İlişkisi		
10		D	Kenar		
11		C	Kenar-Köşe-Açı		
12		B	Çokgen Adları		

Çalışmam Gereken Konular:

_____

_____

Instagram
Kamerayla okut

YouTube
Kamerayla okut

Web sitesi
Kamerayla okut

Bir Sonraki Adımım:

- [ ] Yanlis yaptigim soruyu tekrar coz
- [ ] Cozum videosunu izle -> [Video linki]
- [ ] Konu analizine bak -> maarifmatematik.com.tr/sinif/5/mat-5-cokgenler
- [ ] Tum MAT5.12 setini al -> shopier.com/MaarifMatematik

"Hata yapmak değil, hatadan ders çıkarmamak başarısızlıktır."